Dominosteine

In diesem Wirrwarr aus Zahlen wurden alle Dominosteine versteckt, die rechts neben dem Rätsel aufgelistet sind. Jeweils zwei Zahlen nebeneinander oder übereinander bilden einen Stein. Jeder Dominostein kommt genau einmal vor. Aber Achtung: Die zwei Zahlen der meisten Dominosteine kömmen öfters nebeneinander oder übereinander vor, aber nur an einer Stelle befindet sich der Stein. Finden Sie die richtige Lage aller Dominosteine!

Tipp: Suchen Sie zuerst nach Ziffern, die nur ein einziges Mal nebeneinander stehen!

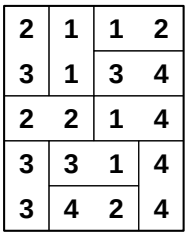

Beispiel

4906a. mittel

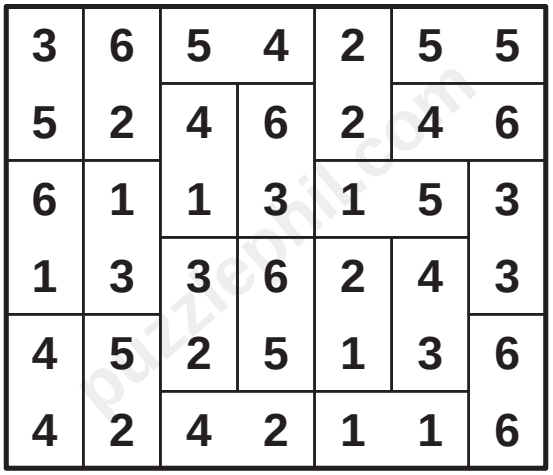

4906b. schwer

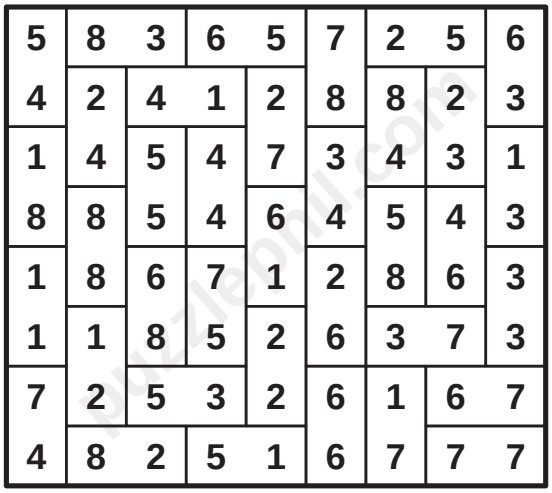

© Philipp Hübner